…….. **Imię i nazwisko ucznia** …….. **Pełna nazwa szkoły** ……..	

Maksymalna liczba punktów	**40**
Uzyskana liczba punktów	

KONKURS HISTORYCZNY
DLA UCZNIÓW SZKOŁY PODSTAWOWEJ
ZESTAW ZADAŃ KONKURSOWYCH
ROK SZKOLNY 2021/2022

ETAP DRUGI

Instrukcja dla ucznia

1. Na rozwiązanie wszystkich zadań masz 90 minut.
2. Zestaw konkursowy zawiera 22 zadania.
3. Przed rozpoczęciem pracy sprawdź, czy zestaw zadań jest kompletny. Jeżeli zauważysz usterki, zgłoś je Komisji Konkursowej.
4. Zadania czytaj uważnie i ze zrozumieniem.
5. Rozwiązania zapisuj długopisem lub piórem. Rozwiązania zapisane ołówkiem nie będą oceniane.
6. Nie używaj korektora i długopisu ścieralnego.
7. W nawiasach obok numerów zadań podano maksymalną liczbę punktów możliwych do uzyskania za dane zadanie.

POWODZENIA!

Zadanie 1. (2 punkty)

Z jakimi starożytnymi cywilizacjami związane są przedstawione na poniższych ilustracjach zabytki (wynalazki)? Przyporządkuj każdy wynalazek określonemu rejonowi geograficznemu. Odpowiednie cyfry z mapy zapisz poniżej.

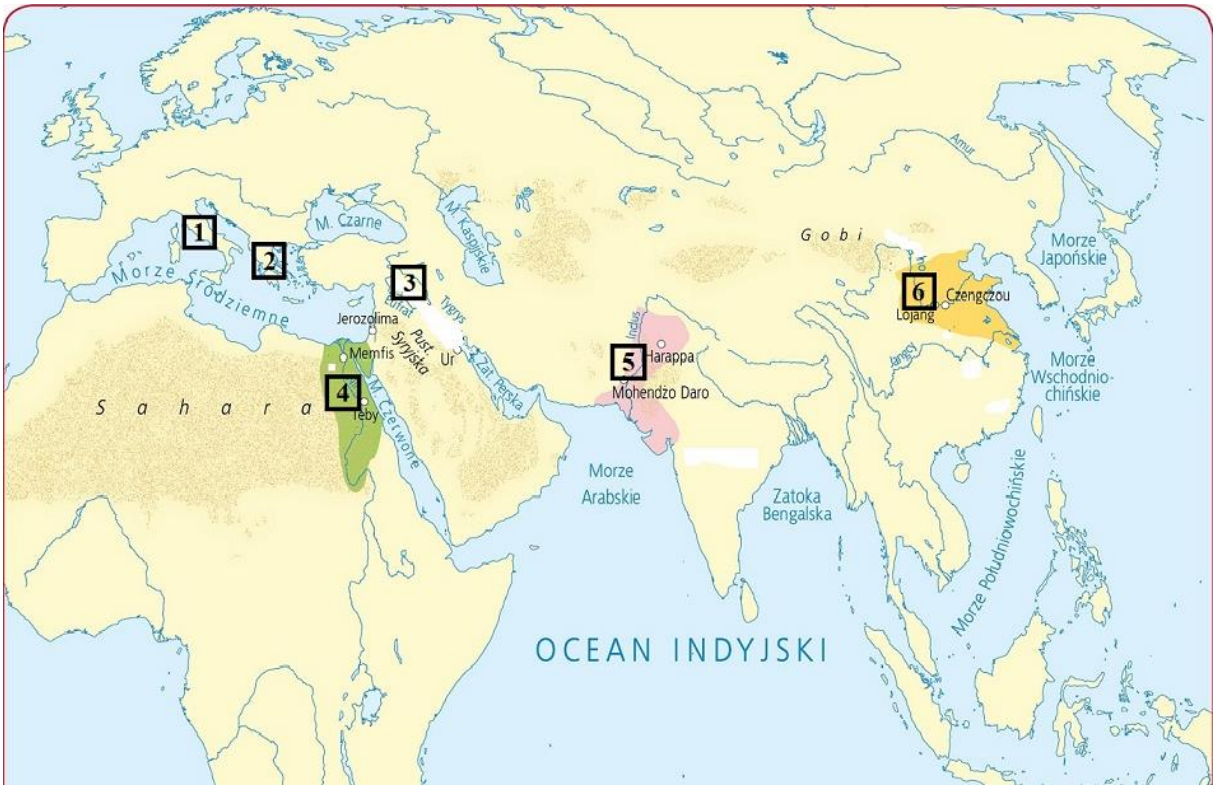

mapyonline.gwo.pl

pl.pngtree.com

Wynalazek A

Rejon – nr …….

pl.wikipedia.org

Wynalazek B

Rejon – nr …….

optolov.ru

Wynalazek C

Rejon – nr ……

gry-online.pl

Wynalazek D

Rejon – nr …….

Liczba punktów
….. /2

Zadanie 2. (1 punkt)

Rozstrzygnij, która z poniższych fotografii przedstawia pismo powstałe jako najstarsze, a następnie podaj jego nazwę.

A



pl.wikipedia.org

B

pl.depositphotos.com

C



whk.up.krakow.pl

Rozstrzygnięcie: ……..

Nazwa pisma: ……..

Liczba punktów
….. /1

Zadanie 3. (1 punkt)

Przypatrz się uważnie budowli pokazanej na ilustracji, a następnie podaj jej nazwę stosowaną w historiografii.



moscsp.ru

……

Liczba punktów
….. /1

Zadanie 4. (2 punkty)

Podaj imię oraz funkcję osoby przedstawionej na poniższym wizerunku.



pl.wikipedia.org

A. Imię – …….

B. Funkcja – ……

……..

……..

Liczba punktów
….. /2

Zadanie 5. (1 punkt)

Rozstrzygnij, czy mapa ze źródła 2 przedstawia granice państwa Piastów w momencie wydarzenia opisanego w źródle 1. Podaj uzasadnienie, odnosząc się do obydwu źródeł.

Źródło 1 […] cesarz Otto Rudy przybył do grobu św. Wojciecha dla modlitwy i pojednania, a zarazem w celu poznania sławnego Bolesława […]. Bolesław przyjął go […] zaszczytnie i okazale […] najpierw hufce przeróżne rycerstwa, następnie dostojników rozstawił jak chóry na obszernej równinie, a poszczególne, z osobna stojące hufce wyróżniała odmienna barwa strojów. […] Złoto […] za czasów [Bolesława] było tak pospolite u wszystkich jak [dziś] srebro, srebro zaś było tanie jak słoma. Zwarzywszy jego chwałę, potęgę i bogactwo, […] zawołał w podziwie: „Na koronę mego cesarstwa! To, co widzę, większe jest niż wieść głosiła!" I […] dodał: „Nie godzi się takiego i tak wielkiego męża […] księciem nazywać […] lecz [wypada] chlubnie wynieść go na tron królewski i uwieńczyć koroną." A zdjąwszy z głowy swój diadem cesarski, włożył go na głowę Bolesława.[…] i dał mu w darze gwóźdź z Krzyża Pańskiego wraz z włócznią św. Maurycego, w zamian za co Bolesław ofiarował mu ramię św. Wojciecha. I tak owego dnia złączyli się miłością, że cesarz mianował go bratem i współpracownikiem cesarstwa […].

Źródło: Historia w tekstach źródłowych. Wypisy t. 1, oprac. Teresa Maresz, Krzysztof Juszczyk, Rzeszów 2000, s. 92-93.

Źródło 2

wlaczpolske.pl

Rozstrzygnięcie: ……..

Uzasadnienie: ……..…….....

……..…….....

……..…….....

Liczba punktów
….. /1

Zadanie 6. (2 punkty)

Na podstawie źródła i wiedzy pozaźródłowej odpowiedz na poniższe pytania.

Wydarzenia z 1038 r.

„Tymczasem królowie i książęta sąsiedni, każdy od swojej strony, gnębili Polskę i do swojego władztwa każdy przyłączał miasta i grody graniczne, lub zdobywszy równał z ziemią. I choć tak wielkie krzywdy i klęski znosiła Polska od obcych, to jeszcze nierozsądniej i sromotniej dręczona była przez własnych mieszkańców. Albowiem niewolnicy powstali na panów, wyzwoleńcy przeciw szlachetnie urodzonym.... Nadto jeszcze, porzucając wiarę katolicką – czego nie możemy wypowiedzieć bez płaczu i lamentu – ponieśli bunt przeciw biskupom i kapłanom Bożym i niektórych z nich, jakoby w zaszczytniejszy sposób, mieczem zgładzili, a innych, jakoby rzekomo godnych lichszej śmierci, ukamienowali. W końcu zarówno od obcych, jak i od własnych mieszkańców Polska doznała takiego spustoszenia, że w zupełności niemal obraną została z bogactw i ludzi. Wtedy to […] zniszczyli Gniezno i Poznań i zabrali ciało św. Wojciecha.... A wspomniane miasta tak długo pozostały w opuszczeniu, że w kościele św. Wojciecha i św. Piotra apostoła dzikie zwierzęta założyły swe legowiska."

Źródło: Gall Anonim, Kronika polska, przełożył H. Grodecki, Wrocław 2003, s. 42– 43.

a. Które grody zostały zniszczone w czasie najazdu?

.....

b. Z jakiego kraju pochodził władca, który zabrał ciało św. Wojciecha z katedry w Gnieźnie?

.....

c. Kto zamieszkał w kościołach Poznania i Gniezna po najeździe?

.....

d. Kto po wydarzeniach opisanych w tekście źródłowym wrócił do Polski i zasiadł na tronie książęcym?

.....

Liczba punktów
….. /2

Zadanie 7. (2 punkty)

Przyjrzyj się uważnie ilustracji, skorzystaj także z wiedzy własnej i uzupełnij poniższe wypowiedzi.

garnek.pl

A. Widoczny na zdjęciu zabytek to

…….

B. Styl architektoniczny, który przedstawia źródło ilustracyjne to

…….

C. Zabytek przedstawia sceny z życia i śmierci [podaj imię świętego]

…….

Liczba punktów
….. /2

Zadanie 8. (2 punkty)

Na obrazach widoczne są wizerunki władczyń, które także znalazły się w poczcie Jana Matejki. Dopisz pod ilustracjami imię każdej z kobiet oraz władcę, który był ich małżonkiem.

pinakoteka.zascianek.pl

malarze.com

imię		
mąż		

Liczba punktów
….. /2

Zadanie 9. (2 punkty)

Dopisz pod każdą z ilustracji nazwę właściwego stylu architektonicznego. Wymienione poniżej cechy przyporządkuj do stylu romańskiego lub gotyckiego.

polskazachwyca.pl

A……

pl.wikipedia.org

B……

Styl romański: .....

Styl gotycki: .....

A. materiałem budowlanym kamienne ciosy
B. sklepienie półkoliste
C. sklepienie krzyżowo-żebrowe
D. łuk ostry
E. strzelistość budowli
F. małe okna

Liczba punktów
….. /2

Zadanie 10. (1 punkt)

Zaproponuj tytuł dla poniższej mapy, pamiętaj, by tytuł zawierał określenie tematu, czasu i przestrzeni.

wlaczpolske.pl

……..

……..

Liczba punktów
….. /1

Zadanie 11. (2 punkty)

Rozpoznaj i wpisz nazwy miast na podstawie średniowiecznych zabytków ukazanych na ilustracjach.

medievalheritage.eu

theblondtravels.com

A…… B…….

Liczba punktów
….. /2

Zadanie 12. (1 punkt)

Na podstawie podanego drzewa genealogicznego i wiedzy własnej odpowiedz na pytania.

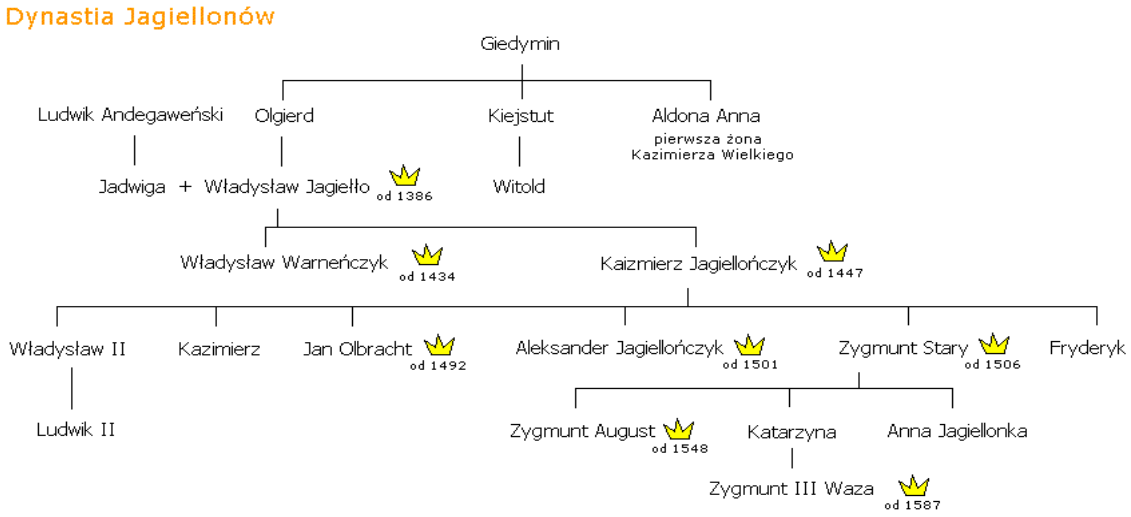

Źródło: *naukapozaszkola.blog.onet.pl*

A. Pierwszym wspólnym władcą Polski i Węgier był …….

B. Podaj imię prawnuka Kazimierza Jagiellończyka ……

Liczba punktów
….. /1

Zadanie 13. (2 punkty)

Na podstawie tekstu źródłowego i wiedzy własnej odpowiedz na poniższe pytania.

[…] Ponieważ prawa ogólne i ustawy dotyczą nie pojedynczego człowieka, ale ogółu narodu, przeto na tym walnym sejmie radomskim wraz ze wszystkimi Królestwa naszego prałatami, radami i posłami ziemskimi za słuszne i sprawiedliwe uznaliśmy, jakoż postanowiliśmy, iż odtąd na potomne czasy nic nowego […] stanowionym być nie ma przez nas i naszych następców, bez wspólnego zezwolenia senatorów i posłów ziemskich, co było ujmą i ku uciążeniu Rzeczypospolitej oraz ze szkodą i krzywdą czyjąśkolwiek, tudzież zmierzało ku zmianie prawa ogólnego i wolności publicznej.[…]

Wiek XVI-XVIII w źródłach, oprac. M. Sobańska- Bondaruk, St. B. Lenard, W-wa 1999, s.95.

I. Zacytowany tekst źródłowy powstał w Polsce za panowania:

A. Syna Zygmunta Starego
B. Najstarszego z wnuków Władysława Jagiełły
C. Najmłodszego z synów Kazimierza Jagiellończyka
D. Następcy i brata Jana Olbrachta.

II. Co oznaczają słowa nihil novi? - ……

Liczba punktów
….. /2

Zadanie 14. (1 punkt)

Wśród wymienionych odkryć geograficznych, podróży i wypraw badawczych wskaż to, które chronologicznie jest pierwsze i to, które jest ostatnie. W tabeli obok wydarzenia pierwszego wpisz literę A, obok ostatniego – B.

L.p.	Wydarzenie	
1.	Opłynięcie i odkrycie Przylądka Dobrej Nadziei przez Bartolomeo Diaza.	
2.	Opłynięcie Ziemi dookoła przez Ferdynanda Magellana.	
3.	Odkrycie Ameryki, Kuby, Haiti przez Krzysztofa Kolumba.	
4.	Odkrycie drogi morskiej do Indii przez Vasco da Gama.	

Liczba punktów
….. /1

Zadanie 15. (2 punkty)

Na podstawie tekstu źródłowego, ilustracji i wiedzy własnej odpowiedz na poniższe pytania.

Uniwersał królewski z 1578 r.

Wszem wobec i każdemu z osobna, starostom i dzierżawcom wsi naszych królewskich, jako też poddanym naszym i innym, którym by to wiedzieć należało, uprzejmie i wiernie nam miłym, łaskę naszą królewską oznajmiamy. Iż na przyszłym warszawskim sejmie uchwalona jest konstytucja wedle opatrzenia ludzi pieszych na potrzeby wojenne, tak z miasteczek, jako i wsi królewskich, wedle słusznej liczby łanów, tedy teraz na mocy tej konstytucji posyłam urodzonego [tj. szlachcica] Mroczka do województwa sandomierskiego do postanowienia takowej piechoty. A to tym sposobem, że we wszystkich wsiach naszych tenże urodzony Mroczek ma obrać i postanowić z każdych 20 łanów jednego człowieka, który by się nam do tego oświadczył dobrowolnie, śmielszego i dostatniejszego od innych, a takowy od tego czasu ma być i będzie wolen od wszelkich powinności naszych [...].
Powinność takowego pieszego będzie ta: w każdą ćwierć roku do rotmistrza swego albo porucznika jego, na miejsce oznajmione stawić się do lustracji z rusznicą swą dobrze narządzoną, szablą, siekierką i barwą [mundurem] taką, jaką rotmistrz lub porucznik mu naznaczyli, z innymi pieszymi podobną. Proch też swój i ołów ma mieć.

Wiek XVI - XVIII w źródłach, oprac. M. Sobańska – Bondaruk, S.B. Lenard, Warszawa 1997, s.111-112.

pl.wikipedia.org

A. Podaj nazwę formacji wojskowej, o której jest mowa w tekście źródłowym.

……...

B. Podaj trzy elementy uzbrojenia żołnierza opisanego w źródle.

……...

……...

C. Podaj nazwę instytucji powstałej w tym samym roku, przedstawionej na zdjęciu i mającej siedzibę w Lublinie. …….....

Liczba punktów
….. /2

Zadanie 16. (2 punkty)

Odpowiedz na pytania związane z ilustracją.

bunkrowo.pl

I. Przedstawiona bitwa rozegrała się na terytorium

A. Prus Królewskich B. Inflant C. Prus Książęcych

II. Odbyła się ona:

A. II połowie XVI wieku B. I połowie XVII wieku C. II połowie XVII wieku

III. Do jakiej formacji zaliczali się przedstawieni na ilustracji żołnierze?

.....

IV. Podaj dwa charakterystyczne elementy uzbrojenia. ….....

.....

Liczba punktów
….. /2

Zadanie 17. (2 punkty)

Do podanych cytatów dobierz osoby z nimi związane. Odpowiedzi wybierz spośród podanych poniżej.

Jan Zamoyski; Stanisław Żółkiewski; Stefan Batory; Jan III Sobieski; Stefan Czarniecki

L.p.	**Cytat**	**Osoba**
1.	„Jam nie z soli, ani z roli ale z tego, co mnie boli wyrosłem.”	
2.	„Przybyłem, zobaczyłem, Bóg zwyciężył.”	
3.	„Takie będą Rzeczypospolite jakie ich młodzieży chowanie.”	
4.	„Jestem królem waszym, nie wymyślonym ani malowanym.“	

Liczba punktów
….. /2

Zadanie 18. (3 punkty)

Na podstawie mapy i wiedzy pozaźródłowej odpowiedz na poniższe pytania.

wlaczpolskie.pl

A. Szwedzkie natarcie wyruszyło na ziemie Korony w 1655 r. z dwóch kierunków. Zostały one zaznaczone na mapie odpowiednimi cyframi. Wpisz je poniżej i dopisz do każdej z nich nazwę ziemi [krainy geograficzno – historycznej].

……...

……...

B. Podaj nazwę terytorium, które uniezależniło się od Rzeczpospolitej w czasie tego konfliktu.

…….....

C. Podaj miejsce pokoju zawartego po wojnie przedstawionej na mapie.

……...

Liczba punktów
….. /3

Zadanie 19. (2 punkty)

Na podstawie tekstu źródłowego i wiedzy własnej odpowiedz na pytania.

Paryż, piątek 22 grudnia [1673]

Oto wieść z Europy, która utkwiła mi w głowie: przekazuję Ci ją wbrew moim obyczajom. Wiedz, moja duszko, że król Polski umarł. Ów wielki hetman, mąż panny d'Arquien stoi na czele armii przeciw Turkom. Wygrał bitwę tak ważną, tak znaczną, że piętnaście tysięcy Turków zostało na placu. Wziął w niewolę dwóch paszów; zamieszkał w generalskim namiocie, a zwycięstwo to tak jest wielkie, iż nikt nie wątpi, że zostanie królem, tym bardziej, że stoi na czele armii, a los zawsze sprzyja wielkim wojownikom.

K. Zielińska, Z. Kozłowska, Historia II. Dzieje nowożytne 1492-1815. Podręcznik dla klasy II liceum ogólnokształcącego, WSiP, Warszawa 1994, s. 181

A. O czyjej śmierci donosi markiza w liście? Podaj imię (imiona) i nazwisko (przydomek) tej osoby.

……

B. Kim był ów wielki hetman? Podaj jego imię i nazwisko.

……

C. Z jakiego państwa pochodziła Maria d'Arquien?

……

D. Gdzie rozegrała się bitwa, o której pisze markiza? Podaj jej miejsce.

……

Liczba punktów
….. /2

Zadanie 20. (2 punkty)

Na zdjęciach widać rezydencje monarsze z okresu XVII i XVIII wieku. Dopisz nazwę miast, w których się znajdowały. Odpowiedzi wybierz spośród podanych poniżej.

Wersal; Zwinger; Wilanów; Kreml

1

odslonkulture.pl

……

2

budowle.pl

……

3

karolina-aroundtheworld.blogspot.com

……

Liczba punktów
….. /2

Zadanie 21. (2 punkty)

Do poniższych zdjęć dopisz ich autorów. Odpowiedzi wybierz spośród podanych poniżej.

Stanisław Konarski; Grzegorz Piramowicz; Piotr Skarga

1

ELEMENTARZ
DLA SZKÓŁ PARAFIALNYCH NARODOWYCH,
ZAWIERAIĄCY
I. NAUKĘ PISANIÁ I CZYTANIA.
II. KATECHIZM.
III. NAUKĘ OBYCZAIOWĄ.
IV. NAUKĘ RACHUNKÓW.
Piérwszy ráz wydany.
Bez oprawy gr: 27.
w KRAKOWIE 1785.
w Drukarni Szkoły Głównéy Koronnéy.

pl.wikipedia.org

……

2

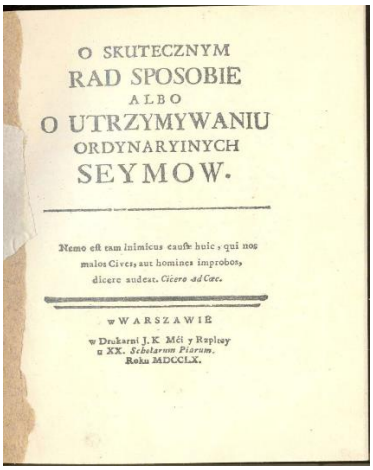
O SKUTECZNYM
RAD SPOSOBIE
ALBO
O UTRZYMYWANIU
ORDYNARYINYCH
SEYMOW.
Nemo eſt tam inimicus cauſæ huic, qui nos malos Cives, aut homines improbos, dicere audeat. *Cicero ad Cæc.*
w WARSZAWIE
w Drukarni J. K. Mći y Rzpltey u XX. *Scholarum Piarum.*
Roku MDCCLX.

polona.pl

……

Liczba punktów
….. /2

Zadanie 22. (3 punkty)

Podaj imiona i nazwiska osób ukazanych na obrazie Jana Matejki „[…]. Upadek Polski”.

A. …… B. …… C. ……

Liczba punktów
….. /3

KLUCZ ODPOWIEDZI – Konkurs historyczny, szkoła podstawowa, etap drugi 2021/22

<table>
<tr><th>Numer zadania</th><th>Model odpowiedzi</th><th>punktacja</th><th>Zasady przyznawania punktów</th></tr>
<tr><td>1</td><td>
<table>
<tr><td>
pl.pngtree.com</td><td>
pl.wikipedia.org</td><td> 
wynalazki.andrej.edu.pl</td><td>
gry-online.pl</td></tr>
<tr><td>Wynalazek A
Rejon – nr 5</td><td>Wynalazek B
Rejon – nr 1</td><td>Wynalazek C
Rejon – nr 6</td><td>Wynalazek D
Rejon – nr 3</td></tr>
</table>
</td><td>0 - 2</td><td>2 pkt za wszystkie poprawne odpowiedzi, 1 punkt za 2-3 poprawne odpowiedzi
Razem 2 punkty</td></tr>
<tr><td>2</td><td>Rozstrzygnięcie – A
Nazwa pisma – [pismo] klinowe</td><td>0 - 1</td><td>1 pkt za obie poprawne odpowiedzi</td></tr>
<tr><td>3</td><td>Zikkurat[ziggurat]</td><td>0 - 1</td><td>1 pkt za poprawną odpowiedź</td></tr>
<tr><td>4</td><td>A – Perykles
B- polityk, strateg, prawodawca, dowódca wojskowy
Inne merytorycznie poprawne odpowiedzi</td><td>0 - 2</td><td>1 pkt za poprawne odpowiedzi do każdego podpunktu
Razem 2 punkty</td></tr>
<tr><td>5</td><td>Rozstrzygnięcie: po wydarzeniu…
Uzasadnienie : Źródło pisane opisuje zjazd w Gnieźnie (1000 r.), natomiast mapa wskazuje nabytki terytorialne państwa polskiego za panowania Chrobrego, które miały miejsce w latach 1002-1018 [po zjeździe gnieźnieńskim] Inne merytorycznie poprawne odpowiedzi</td><td>0 - 1</td><td>Za właściwe rozstrzygnięcie i uzasadnienie 1 pkt</td></tr>
<tr><td>6</td><td>a) Gniezno; Poznań
b) Czechy
c) dzikie zwierzęta
d) Kazimierz Odnowiciel</td><td>0 - 2</td><td>2 pkt za wszystkie dobre odpowiedzi, 1 pkt za 2-3 dobre odpowiedzi
Razem 2 punkty</td></tr>
<tr><td>7</td><td>A – drzwi gnieźnieńskie[brama gnieźnieńska]
B – romanizm;[styl] romański
C – [św.] Wojciech</td><td>0 - 2</td><td>2 pkt za 3 dobre odpowiedzi, 1 pkt za 1 -2 dobre odpowiedzi
Razem 2 punkty</td></tr>
</table>

<table>
<tr><td>8</td><td>
<table>
<tr><td></td><td>
pinakoteka.zascianek.pl</td><td>
malarze.com</td></tr>
<tr><td>imię</td><td>Dobrawa</td><td>Jadwiga</td></tr>
<tr><td>mąż</td><td>Mieszko I</td><td>Władysław Jagiełło</td></tr>
</table>
</td><td>0 - 2</td><td>1 pkt za każdą poprawną odpowiedź w kolumnie
Razem 2 punkty</td></tr>
<tr><td>9</td><td>A – romański
B – gotycki
Styl romański : A; B; F
Styl gotycki : C; D; E</td><td>0 - 2</td><td>1 pkt za poprawne odpowiedzi dotyczące stylu romańskiego[ilustracja+cechy]
1 pkt za poprawne odpowiedzi dotyczące stylu gotyckiego[ilustracja+cechy]
Razem 2 punkty</td></tr>
<tr><td>10</td><td>Polska w okresie rozbicia dzielnicowego w XIII w.
Inne merytorycznie poprawne odpowiedzi</td><td>0 - 1</td><td>1 pkt za poprawną odpowiedź</td></tr>
<tr><td>11</td><td>A – Kraków
B - Gdańsk</td><td>0 - 2</td><td>1 pkt za każdą poprawną odpowiedź w każdym podpunkcie
Razem 2 punkty</td></tr>
<tr><td>12</td><td>A – Ludwik Węgierski
B – Zygmunt[III]Waza</td><td>0 - 1</td><td>1 pkt za obie poprawne odpowiedzi</td></tr>
<tr><td>13</td><td>I – D
II – Nic nowego[bez zgody szlachty]</td><td>0 - 2</td><td>1 pkt za każdą poprawną odpowiedź w każdym podpunkcie
Razem 2 punkty</td></tr>
<tr><td>14</td><td>
<table>
<tr><th>L.p</th><th>Wydarzenie</th><th></th></tr>
<tr><td>1.</td><td>Opłynięcie i odkrycie Przylądka Dobrej Nadziei przez Bartolomeo Diaza</td><td>A</td></tr>
<tr><td>2.</td><td>Opłynięcie Ziemi dookoła przez Ferdynanda Magellana.</td><td>B</td></tr>
</table>
</td><td>0 -1</td><td>1 pkt za poprawną odpowiedź</td></tr>
</table>

	3. Odkrycie Ameryki ,Kuby, Haiti przez Krzysztofa Kolumba. 4. Odkrycie drogi morskiej do Indii przez Vasco da Gama.		
15	A – Piechota wybraniecka B – można cytować - rusznicą swą dobrze narządzoną, szablą, siekierką i barwą[mundurem] taką, jaką rotmistrz lub porucznik mu naznaczyli, z innymi pieszymi podobną. Proch też swój i ołów ma mieć. C – Trybunał [Główny] Koronny	**0 - 2**	**2 pkt za wszystkie dobre odpowiedzi, 1 pkt za 2 dobre odpowiedzi Razem 2 pkt**
16	I – B II – B III – husaria IV – pancerz[zbroja]; lamparcia, tygrysia skóra; koncerz; hełm[szyszak, kapalin]; kopia[proporzec]; skrzydła; **Wystarczy dwa elementy z powyższych inne poprawnie merytorycznie odpowiedzi**	**0 - 2**	**2 pkt za wszystkie dobre odpowiedzi, 1 pkt za 2 dobre odpowiedzi Razem 2 punkty**
17	**L.p / Cytat / Osoba** 1. „Jam nie z soli, ani z roli ale z tego, co mnie boli wyrosłem” — S. Czarniecki 2. „Przybyłem, zobaczyłem, Bóg zwyciężył” — Jan [III] Sobieski 3. „Takie będą Rzeczypospolite jakie ich młodzieży chowanie” — Jan Zamoyski 4. „*Jestem królem* waszym, *nie* wymyślonym ani *malowanym*.“ — Stefan Batory	**0 - 2**	**2 pkt za wszystkie dobre odpowiedzi, 1 pkt za 2-3 dobre odpowiedzi Razem 2 punkty**
18	A – 3 – Pomorze Zachodnie[Szczecińskie], Brandenburgia 2 – Inflanty B – Prusy Książęce C - Oliwa	**0 - 3**	**1 pkt za każdą poprawną odpowiedź w każdym podpunkcie Razem 3 punkty**
19	A – Michał Korybut Wiśniowiecki B- Jan Sobieski C – Francja D - Chocim	**0 - 2**	**2 pkt za wszystkie dobre odpowiedzi, 1 pkt za 2-3 dobre odpowiedzi Razem 2 punkty**
20	1 – Wilanów 2 – Zwinger 3 – Wersal	**0 - 2**	**2 pkt za wszystkie dobre odpowiedzi, 1 pkt za 2 dobre odpowiedzi Razem 2 punkty**
21	1 – [Grzegorz] Piramowicz 2 – [ks Stanisław] Konarski	**0 - 2**	**1 pkt za każdą poprawną odpowiedź w każdym podpunkcie**

			Razem 2 punkty
22	A – Stanisław August Poniatowski B – Tadeusz Rejtan C- Katarzyna II[Romanow]	**0- 3**	**1 pkt za każdą poprawną odpowiedź w każdym podpunkcie** **Razem 3 punkty**